ประถมศึกษา

อ่านแล้วมั่นใจ เพื่อนทำได้แน่!

คลังโจทย์

ป.3

เล่ม 1

รวมโจทย์ 8 กลุ่มสาระ

คณิตศาสตร์ ภาษาไทย วิทยาศาสตร์ ภาษาอังกฤษ สังคมศึกษา
สุขศึกษา พลศึกษา ศิลปะ และการงานอาชีพฯ

เฉลยแบบอธิ บายละเอียดทุกวิชา
แบบฝึ กหัดที่ช่วยเสริมความเข้าใจ เพิ่มความเป็นเลิศเหนือระดับในชั้นเรียน
ครบถ้ วน ครอบคลุมเนื้อหาเทอมต้น-เทอมปลาย

เล่มเดียวในประเทศที่มี ตารางสรุปค่าสถิติของนักเรียนทั่วประเทศ
สำหรับใช้เปรียบเทียบเพื่อประเมินความสามารถของตัวเองในแต่ละวิชาได้อย่างชัดเจน

คำนำ

คลังโจทย์ ชั้น ป.3 เป็นหนังสือคู่มือเตรียมสอบแนวใหม่ เหมาะอย่างยิ่งสำหรับนักเรียนสำหรับใช้ทบทวนความรู้-วัดผลตัวเอง เพื่อพัฒนาความเป็นเลิศในแต่ละวิชาและเตรียมสอบศึกษาต่อในระดับชั้นที่สูงขึ้น ซึ่งปัจจุบันมีอัตราการแข่งขันสูงขึ้นทุกปี ในเล่มจะประกอบด้วยแบบทดสอบ ครบทั้ง 8 กลุ่มสาระ คือ คณิตศาสตร์, วิทยาศาสตร์, ภาษาอังกฤษ, ภาษาไทย, สังคมศึกษาฯ และสุขศึกษา-พลศึกษาฯ วิชาละ 2 ชุด โดยในแต่ละวิชาจะมีเนื้อหาครอบคลุมตามหลักสูตรใหม่ของกระทรวงศึกษาธิการ มีระดับความยาก-ง่าย และพลิกแพลงตามแนวข้อสอบแข่งขันระดับประเทศ และยังได้จัดพิมพ์เฉลยอย่างละเอียด พร้อมแนวการประเมินผลของข้อสอบแต่ละชุดให้อีก เพื่อให้นักเรียนสามารถอ่านทำความเข้าใจและประเมินผลคะแนนที่ทำได้ด้วยตัวเอง

อนึ่ง **คลังโจทย์** เล่มนี้ เป็นส่วนหนึ่งของหนังสือชุด **"โจทย์ขั้นเทพ และ คลังโจทย์"** ที่จัดทำขึ้นแยกเป็น 2 ชุดใหญ่ๆ โดยรวบรวม-ปรับปรุงมาจาก **"คลังข้อสอบของบัณฑิตแนะแนว"** ซึ่งได้เคยผ่านการใช้สอบวัดความรู้นักเรียนทั่วประเทศในแต่ละปีกว่า 100,000 คนมาแล้ว ดังนี้

1. ชุด โจทย์ขั้นเทพ เป็นหนังสือรวมโจทย์ข้อสอบระดับสูง เช่น ข้อสอบแข่งขัน, ข้อสอบชิงทุน หรือข้อสอบคัดเลือกเข้าเรียนต่อในสถาบันชั้นนำ ปัจจุบันจัดพิมพ์แยกเป็นหลายเล่ม ตามระดับชั้นของนักเรียน

2. ชุด คลังโจทย์ เป็นหนังสือรวมโจทย์ข้อสอบวัดพื้นฐานความรู้ในแต่ละวิชาของชั้นนั้นๆ เหมาะสำหรับฝึกทำหาประสบการณ์ และเพิ่มเกรดให้สูงขึ้น ปัจจุบันจัดพิมพ์แยกเป็นหลายเล่ม ตามระดับชั้นของนักเรียน

สำนักงานบัณฑิตแนะแนวหวังเป็นอย่างยิ่งว่า หนังสือชุด **"โจทย์ขั้นเทพ และ คลังโจทย์"** เล่มนี้จะเป็นประโยชน์สำหรับผู้ที่จะมีไว้ศึกษาค้นคว้า และใช้เป็นแนวทางในการเตรียมตัวสอบให้ประสบความสำเร็จ และหากพบข้อบกพร่องประการใดโปรดแจ้งให้ทราบด้วย เพื่อจะได้ปรับปรุงให้ดียิ่งขึ้นในโอกาสต่อไป

สำนักงานบัณฑิตแนะแนว

คลังโจทย์ ชั้น ป.3 (เล่ม 1)

กองบรรณาธิการ : ไพจิตร ศุภพิมล กัญญาณัฏฐ ฟูผล สิทธิชัย นิยมสิทธิ์ วิภาพร ประมวล เพยาว์ ชาวบ้านซ่อง สุจิตตา ไชยจันลา สาริกา โกยรัมย์ เพชรไพลิน รอดนาค ประไพพร ไข่ม่วง วุฒิภัทร จันทร์นาค ธีรยุทธ พงษ์ศิริรัตน์ ปรีดาวรรณ ชลชีพ สันติ วิเศษสุทธิ์ ณรงค์ศักดิ์ รอดนาค

เจ้าของ : สำนักงานบัณฑิตแนะแนว โทรศัพท์ 02-2794808 แฟกซ์ 02-6171820
เลขที่ 1033/4 ถนนพหลโยธิน แขวงสามเสนใน เขตพญาไท กทม. 10400

พิมพ์ที่ : ห้างหุ้นส่วนจำกัดรุ่งเรืองสาส์นการพิมพ์
เลขที่ 195/6 หมู่ 5 ซอยพุทธบูชา 44 แขวงบางมด เขตทุ่งครุ กทม. 10140 โทรศัพท์ 02-8706301-3

สงวนลิขสิทธิ์ตามพระราชบัญญัติ พ.ศ. 2537 : ห้ามลอกเลียน คัดลอก จัดพิมพ์ หรือทำซ้ำ
ไม่ว่าส่วนใดส่วนหนึ่งของหนังสือเล่มนี้ก่อนได้รับอนุญาตเป็นลายลักษณ์อักษร

สารบัญ

ส่วนที่ 1 : คลังโจทย์ ชั้น ป.3 (เล่ม 1)

- คลังโจทย์ ชั้น ป.3 วิชาคณิตศาสตร์ **(ชุดที่ 1)** 3
- คลังโจทย์ ชั้น ป.3 วิชาภาษาไทย **(ชุดที่ 1)** 15
- คลังโจทย์ ชั้น ป.3 วิชาวิทยาศาสตร์ **(ชุดที่ 1)** 23
- คลังโจทย์ ชั้น ป.3 วิชาสังคมศึกษาฯ **(ชุดที่ 1)** 33
- คลังโจทย์ ชั้น ป.3 วิชาภาษาอังกฤษ **(ชุดที่ 1)** 41
- คลังโจทย์ ชั้น ป.3 วิชาคณิตศาสตร์ **(ชุดที่ 2)** 51
- คลังโจทย์ ชั้น ป.3 วิชาภาษาไทย **(ชุดที่ 2)** 63
- คลังโจทย์ ชั้น ป.3 วิชาวิทยาศาสตร์ **(ชุดที่ 2)** 73
- คลังโจทย์ ชั้น ป.3 วิชาสังคมศึกษาฯ **(ชุดที่ 2)** 83
- คลังโจทย์ ชั้น ป.3 วิชาภาษาอังกฤษ **(ชุดที่ 2)** 91
- คลังโจทย์ ชั้น ป.3 วิชา **LAS-NT & ONET (8 กลุ่มสาระ)** 103

ส่วนที่ 2 : เฉลยคลังโจทย์ ชั้น ป.3 (เล่ม 1)

- เฉลยคลังโจทย์ ชั้น ป.3 **(ชุดที่ 1)** 128
- เฉลยคลังโจทย์ ชั้น ป.3 **(ชุดที่ 2)** 154
- เฉลยคลังโจทย์ ชั้น ป.3 วิชา **LAS-NT & ONET (8 กลุ่มสาระ)** 187

ภาคผนวก : คำอธิบาย **"วิธีใช้ตารางสรุปค่าสถิติของนักเรียนทั่วประเทศ"** 208

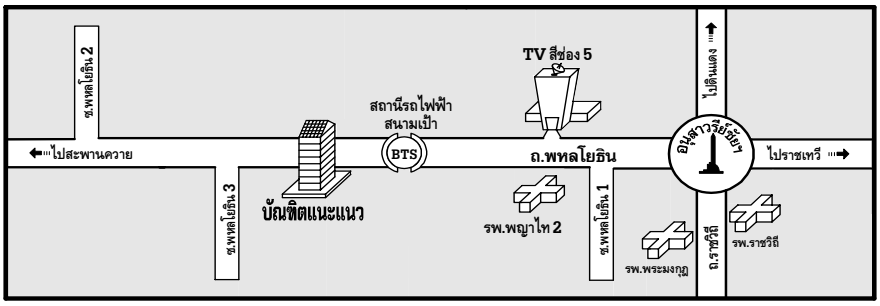

สำนักงานบัณฑิตแนะแนว 1033/4 ถ.พหลโยธิน สามเสนใน พญาไท กทม. 10400

เวลาทำงาน 08.00-17.00 น. **Website :** www.bunditnaenaew.com

ฝ่ายประชาสัมพันธ์ เปิดทุกวัน (จันทร์-อาทิตย์) โทรศัพท์ 02-2794808 แฟกซ์ 02-6171820

ฝ่ายประสานงานโรงเรียน-ร้านค้า เปิดเฉพาะวันจันทร์-วันศุกร์ โทรศัพท์ 02-2794433 แฟกซ์ 02-2796611

บัณฑิตแนะแนว

ข้อสอบเสริมประสบการณ์เพื่อวัดความรู้ระดับประถมศึกษา

คลังโจทย์ ชั้น ป.3

วิชา คณิตศาสตร์ (ชุดที่ 1)

ชื่อ-นามสกุล..... **เลขที่นั่งสอบ**.....

สถานที่สอบ..... **ห้องสอบ**.....

คำอธิบาย

1. **ข้อสอบชุดนี้** มีจำนวน 50 ข้อ คะแนนเต็ม 100 คะแนน ให้เวลาทำ 1 ชั่วโมง
2. **ในการทำข้อสอบ** ให้เลือกคำตอบที่ถูกต้องหรือเหมาะสมที่สุด เพียงคำตอบเดียว กรณีข้อใดไม่มีตัวเลือกที่ถูกต้องให้ตอบตัวเลือกที่ 5) แทน
3. **นักเรียนจะต้องพยายามทำข้อสอบและจับเวลาเหมือนกับการสอบแข่งขันจริง** ห้ามใช้เวลาสอบเกินที่กำหนดและห้ามเปิดตำราดู หรือนำอุปกรณ์ช่วยในการคิดคำนวณมาใช้เด็ดขาด ทั้งนี้เพื่อประโยชน์ในการทดสอบวัดความรู้ของตัวนักเรียนเอง (อาจให้ผู้ปกครองช่วยควบคุมการสอบ หรืออาจใช้นาฬิกาปลุกตั้งเวลาก็ได้) เมื่อหมดเวลาสอบ ให้ตรวจคะแนนจากส่วนเฉลย เรื่องใดทำไม่ได้หรือทำผิดให้กลับไปอ่านหนังสือทบทวนใหม่
4. **การประเมินผล** นักเรียนสามารถนำ “คะแนนสอบที่ทำได้” ไปเปรียบเทียบกับ **ตารางสรุปค่าสถิติในวิชานี้ของนักเรียนทั่วประเทศ** (หลังปกข้อสอบนี้) ก็จะทำให้เห็นระดับความสามารถของตัวเองได้อย่างชัดเจน

ข้อสอบชุดนี้จัดทำขึ้นโดยรวบรวม-ปรับปรุงมาจาก **“ข้อสอบ PRE-ประถมศึกษา 5 ปีล่าสุด”** ของบัณฑิตแนะแนว ซึ่งเคยผ่านการใช้ทดสอบนักเรียนทั่วประเทศกว่า 50,000 คน มาแล้ว จึงเหมาะที่จะใช้ทบทวนความรู้และวัดผลตนเอง เพื่อพัฒนาความเป็นเลิศในแต่ละวิชาและเตรียมสอบแข่งขันในทุกสนาม

ตารางสรุปค่าสถิติวิชานี้ของนักเรียนทั่วประเทศ

ที่เคยเข้าสอบ PRE-ประถมศึกษา ในวิชา คณิตศาสตร์ (ชุดที่ 1)

เมื่อสอบเสร็จให้นำ "คะแนนที่ทำได้" มาเปรียบเทียบเพื่อวัดความสามารถกับ "ค่าสถิติ" นี้ได้เลย

ภาค	สูงสุด (MAXIMUM)	ฐานนิยม (MODE)	มัธยฐาน (MEDIAN)	ค่าเฉลี่ย (MEAN)
กทม.	86.00	30.00	32.00	33.34
เหนือ	88.00	28.00	30.00	31.97
ใต้	84.00	30.00	30.00	31.88
อีสาน	82.00	28.00	32.00	33.45
ตะวันออก	86.00	30.00	34.00	36.61
กลาง-ตะวันตก	90.00	30.00	34.00	35.63
รวมทั้งประเทศ	**90.00%**	**30.00%**	**32.00%**	**33.75%**

ช่วงคะแนน (%)	จำนวนนักเรียน (%) ที่ทำคะแนนสอบวิชานี้ได้ในแต่ละช่วงของแต่ละภาค						
	กทม.	เหนือ	ใต้	อีสาน	ตะวันออก	กลาง	ทั้งประเทศ
0-10	0.14	0.16	0.14	0.17	0.06	0.16	0.15
>10-20	9.20	11.27	10.37	9.08	6.75	7.81	9.10
>20-30	36.70	40.02	40.55	38.85	31.39	32.93	36.82
>30-40	34.48	32.80	33.89	31.98	32.64	32.65	33.16
>40-50	12.85	10.95	11.04	11.90	15.96	15.08	12.93
>50-60	4.37	3.45	2.61	4.48	7.11	5.60	4.47
>60-70	1.65	0.76	0.96	2.73	3.82	4.05	2.34
>70-80	0.50	0.54	0.38	0.68	2.03	1.47	0.89
>80-90	0.11	0.05	0.06	0.13	0.24	0.25	0.14
>90-100	0.00	0.00	0.00	0.00	0.00	0.00	0.00
รวม	**100%**	**100%**	**100%**	**100%**	**100%**	**100%**	**100%**

ดูคำอธิบาย "วิธีใช้ตารางสรุปค่าสถิติของนักเรียนทั่วประเทศ" ได้ที่หน้าสุดท้ายของเล่ม

กระดาษคำตอบ

วิชา.....

ผลการสอบ

ทำได้ ___ คะแนน

1	① ② ③ ④ ⑤	41	① ② ③ ④ ⑤	81	① ② ③ ④ ⑤	121	① ② ③ ④ ⑤
2	① ② ③ ④ ⑤	42	① ② ③ ④ ⑤	82	① ② ③ ④ ⑤	122	① ② ③ ④ ⑤
3	① ② ③ ④ ⑤	43	① ② ③ ④ ⑤	83	① ② ③ ④ ⑤	123	① ② ③ ④ ⑤
4	① ② ③ ④ ⑤	44	① ② ③ ④ ⑤	84	① ② ③ ④ ⑤	124	① ② ③ ④ ⑤
5	① ② ③ ④ ⑤	45	① ② ③ ④ ⑤	85	① ② ③ ④ ⑤	125	① ② ③ ④ ⑤
6	① ② ③ ④ ⑤	46	① ② ③ ④ ⑤	86	① ② ③ ④ ⑤	126	① ② ③ ④ ⑤
7	① ② ③ ④ ⑤	47	① ② ③ ④ ⑤	87	① ② ③ ④ ⑤	127	① ② ③ ④ ⑤
8	① ② ③ ④ ⑤	48	① ② ③ ④ ⑤	88	① ② ③ ④ ⑤	128	① ② ③ ④ ⑤
9	① ② ③ ④ ⑤	49	① ② ③ ④ ⑤	89	① ② ③ ④ ⑤	129	① ② ③ ④ ⑤
10	① ② ③ ④ ⑤	50	① ② ③ ④ ⑤	90	① ② ③ ④ ⑤	130	① ② ③ ④ ⑤
11	① ② ③ ④ ⑤	51	① ② ③ ④ ⑤	91	① ② ③ ④ ⑤	131	① ② ③ ④ ⑤
12	① ② ③ ④ ⑤	52	① ② ③ ④ ⑤	92	① ② ③ ④ ⑤	132	① ② ③ ④ ⑤
13	① ② ③ ④ ⑤	53	① ② ③ ④ ⑤	93	① ② ③ ④ ⑤	133	① ② ③ ④ ⑤
14	① ② ③ ④ ⑤	54	① ② ③ ④ ⑤	94	① ② ③ ④ ⑤	134	① ② ③ ④ ⑤
15	① ② ③ ④ ⑤	55	① ② ③ ④ ⑤	95	① ② ③ ④ ⑤	135	① ② ③ ④ ⑤
16	① ② ③ ④ ⑤	56	① ② ③ ④ ⑤	96	① ② ③ ④ ⑤	136	① ② ③ ④ ⑤
17	① ② ③ ④ ⑤	57	① ② ③ ④ ⑤	97	① ② ③ ④ ⑤	137	① ② ③ ④ ⑤
18	① ② ③ ④ ⑤	58	① ② ③ ④ ⑤	98	① ② ③ ④ ⑤	138	① ② ③ ④ ⑤
19	① ② ③ ④ ⑤	59	① ② ③ ④ ⑤	99	① ② ③ ④ ⑤	139	① ② ③ ④ ⑤
20	① ② ③ ④ ⑤	60	① ② ③ ④ ⑤	100	① ② ③ ④ ⑤	140	① ② ③ ④ ⑤
21	① ② ③ ④ ⑤	61	① ② ③ ④ ⑤	101	① ② ③ ④ ⑤	141	① ② ③ ④ ⑤
22	① ② ③ ④ ⑤	62	① ② ③ ④ ⑤	102	① ② ③ ④ ⑤	142	① ② ③ ④ ⑤
23	① ② ③ ④ ⑤	63	① ② ③ ④ ⑤	103	① ② ③ ④ ⑤	143	① ② ③ ④ ⑤
24	① ② ③ ④ ⑤	64	① ② ③ ④ ⑤	104	① ② ③ ④ ⑤	144	① ② ③ ④ ⑤
25	① ② ③ ④ ⑤	65	① ② ③ ④ ⑤	105	① ② ③ ④ ⑤	145	① ② ③ ④ ⑤
26	① ② ③ ④ ⑤	66	① ② ③ ④ ⑤	106	① ② ③ ④ ⑤	146	① ② ③ ④ ⑤
27	① ② ③ ④ ⑤	67	① ② ③ ④ ⑤	107	① ② ③ ④ ⑤	147	① ② ③ ④ ⑤
28	① ② ③ ④ ⑤	68	① ② ③ ④ ⑤	108	① ② ③ ④ ⑤	148	① ② ③ ④ ⑤
29	① ② ③ ④ ⑤	69	① ② ③ ④ ⑤	109	① ② ③ ④ ⑤	149	① ② ③ ④ ⑤
30	① ② ③ ④ ⑤	70	① ② ③ ④ ⑤	110	① ② ③ ④ ⑤	150	① ② ③ ④ ⑤
31	① ② ③ ④ ⑤	71	① ② ③ ④ ⑤	111	① ② ③ ④ ⑤	151	① ② ③ ④ ⑤
32	① ② ③ ④ ⑤	72	① ② ③ ④ ⑤	112	① ② ③ ④ ⑤	152	① ② ③ ④ ⑤
33	① ② ③ ④ ⑤	73	① ② ③ ④ ⑤	113	① ② ③ ④ ⑤	153	① ② ③ ④ ⑤
34	① ② ③ ④ ⑤	74	① ② ③ ④ ⑤	114	① ② ③ ④ ⑤	154	① ② ③ ④ ⑤
35	① ② ③ ④ ⑤	75	① ② ③ ④ ⑤	115	① ② ③ ④ ⑤	155	① ② ③ ④ ⑤
36	① ② ③ ④ ⑤	76	① ② ③ ④ ⑤	116	① ② ③ ④ ⑤	156	① ② ③ ④ ⑤
37	① ② ③ ④ ⑤	77	① ② ③ ④ ⑤	117	① ② ③ ④ ⑤	157	① ② ③ ④ ⑤
38	① ② ③ ④ ⑤	78	① ② ③ ④ ⑤	118	① ② ③ ④ ⑤	158	① ② ③ ④ ⑤
39	① ② ③ ④ ⑤	79	① ② ③ ④ ⑤	119	① ② ③ ④ ⑤	159	① ② ③ ④ ⑤
40	① ② ③ ④ ⑤	80	① ② ③ ④ ⑤	120	① ② ③ ④ ⑤	160	① ② ③ ④ ⑤

1.

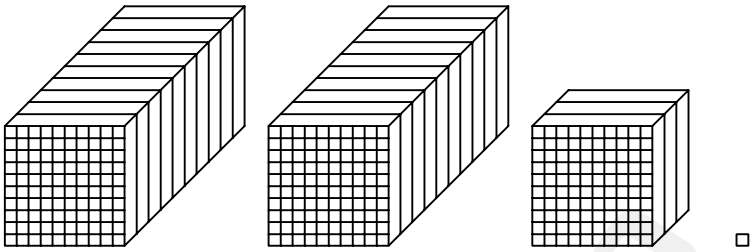

จากภาพข้อใดอ่านได้**ถูกต้อง**

1) สองพันสามร้อยหนึ่ง
2) สองพันสามสิบเอ็ด
3) สองพันสามร้อยเอ็ด
4) สองพันสามสิบหนึ่ง

2. ค่าประจำหลักตัวเลข **2** ข้อใดมีค่า**น้อยที่สุด**

1) 94,37**2**
2) 53,6**2**7
3) **2**0,354
4) 1**2**,583

3. ประโยคสัญลักษณ์ข้อใด**ถูกต้อง**

1) 36,057 = 30,000 + 500 + 6,000 + 7
2) 48,365 < 40,000 + 900 + 300 + 60 + 5
3) 26,370 > 20,000 + 5,000 + 1,300 + 70
4) 53,007 = 50,000 + 2,000 + 1,000 + 7

4. พิจารณาข้อมูล

400 + 60 + 9
300 + 20 + 8
700 + 80 + □

ควรเติมจำนวนข้อใดใน □ เพื่อให้สอดคล้องกับข้อมูลข้างต้น

1) 7
2) 10
3) 17
4) 19

5. จากโจทย์ ข้อใดกระจาย 835 ได้**ถูกต้อง**

8 3 5
− 4 2 9 → □ + □ + □
− 400 + 20 + 9

1) 800 + 30 + 5
2) 800 + 30 + 15
3) 700 + 120 + 15
4) 800 + 20 + 15

6. ประโยคสัญลักษณ์ข้อใดมีค่าเท่ากับ □ + 365 = 763

1) 763 − 365 = □
2) 763 + 365 = □
3) 365 − 763 = □
4) 763 + □ = 365

7. แดงมีเงิน 365 บาท ดำมีเงินมากกว่าแดง 125 บาท รวมทั้งสองคนมีเงินเท่าใด

1) 380 บาท 2) 390 บาท 3) 615 บาท 4) 855 บาท

8. ปรีดามีเงิน 500 บาท ซื้อหนังสือ 137 บาท ซื้อกระเป๋า 260 บาท ปรีดาจะต้องจ่ายเงินเท่าใด

1) 103 บาท 2) 397 บาท 3) 890 บาท 4) 897 บาท

9. โจทย์ปัญหาข้อใดเขียนประโยคสัญลักษณ์ได้สัมพันธ์กับ 365 + 248 = □

1) แดงมีเงิน 365 บาท เขียวมีเงิน 248 บาท แดงมีเงินมากกว่าเขียวกี่บาท
2) คุณแม่ซื้อเสื้อ 365 บาท เสื้อราคาถูกกว่ากางเกง 248 บาท กางเกงราคาเท่าใด
3) มานะซื้อกล่องดินสอ 365 บาท มานีซื้อแพงกว่า 248 บาท รวมสองคนต้องจ่ายเงินเท่าใด
4) คุณยายให้เงินต้อย 365 บาท ให้เงินติ่ง 248 บาท คุณยายให้เงินต้อยกี่บาท

10. หม้อราคาใบละ 279 บาท ซื้อ 2 ใบราคา 500 บาท จานใบละ 130 บาท ซื้อ 2 ใบ ราคาครึ่งหนึ่งของหม้อ 2 ใบ ถ้าซื้อหม้อ 3 ใบ จาน 4 ใบ จะต้องจ่ายเงินเท่าใด

1) 909 บาท 2) 914 บาท
3) 1,279 บาท 4) 1,357 บาท

พิจารณาแผนภูมิรูปภาพต่อไปนี้ แล้วตอบคำถามข้อ 11–12

แผนภูมิรูปภาพแสดงจำนวนต้นไม้ในสวนของลุงชม

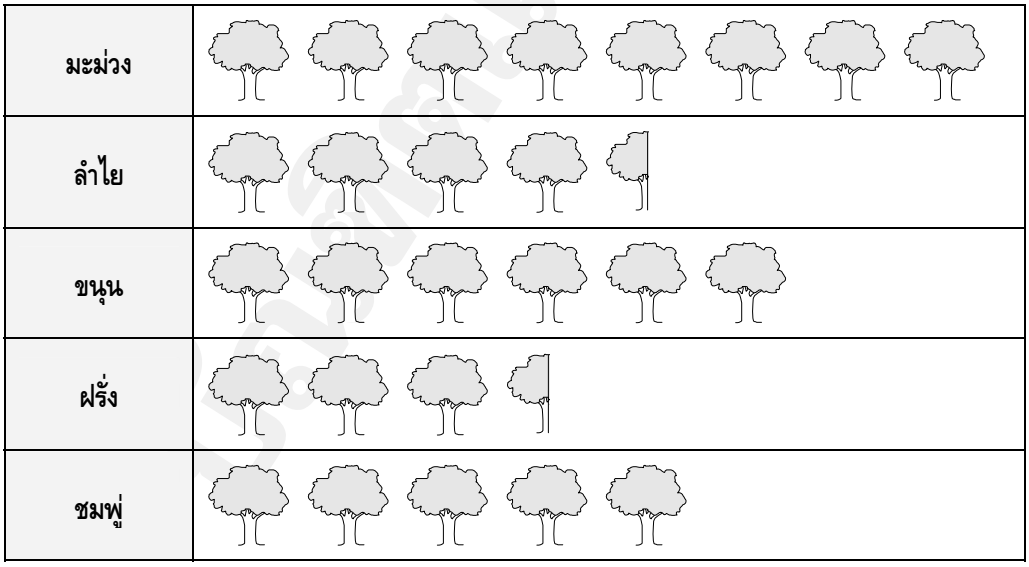

กำหนดให้ 1 รูป แทนต้นไม้ 20 ต้น

11. จากแผนภูมิผลไม้ชนิดใดที่รวมกันมีจำนวนเท่ากับมะม่วง

1) ลำไย, ฝรั่ง 2) ฝรั่ง, ชมพู่ 3) ขนุน, ฝรั่ง 4) ลำไย, ชมพู่

12. ลุงชมปลูกลำไย, ขนุน และฝรั่งรวมกี่ต้น

1) 14 ต้น 2) 15 ต้น 3) 280 ต้น 4) 300 ต้น

13. ในการสอบทุกวิชาคะแนนเต็มร้อย วิชัยสอบภาษาไทยได้ 80 คะแนน คณิตศาสตร์ 95 คะแนน วิทยาศาสตร์ได้ 75 คะแนน ข้อใดแสดงแผนภูมิแท่งได้**ถูกต้อง**

1)

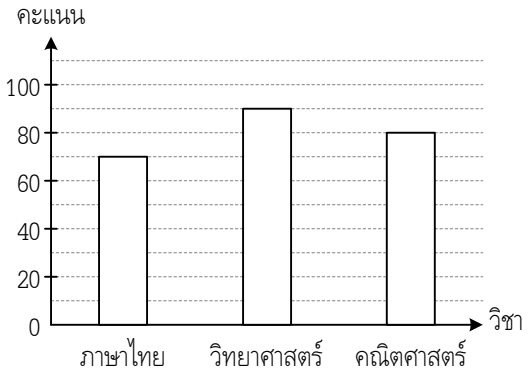

2)

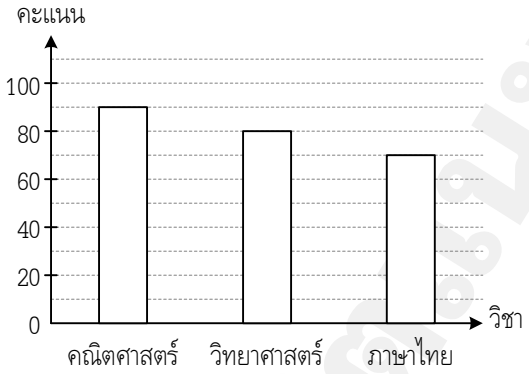

3)

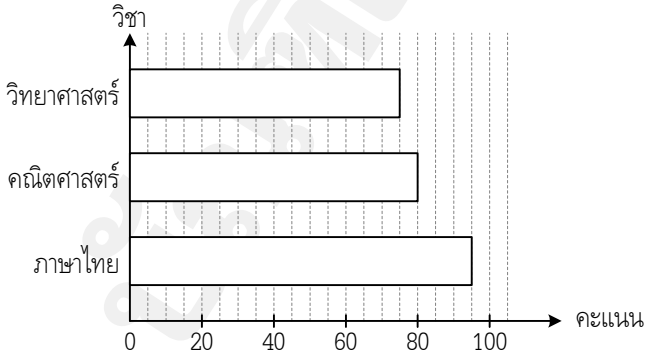

4)

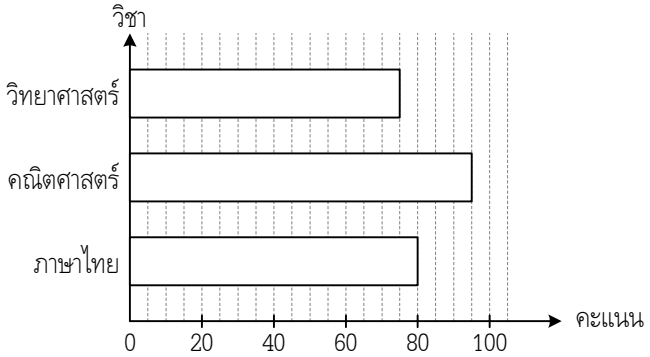

14. พื้นที่สนามกว้าง 2 เมตร ยาว 4.5 เมตร โรยก้อนหินรอบสนามกว้าง 50 เซนติเมตร จะวัดความยาวรอบนอกได้กี่เมตร

1) 13 เมตร
2) 13.50 เมตร
3) 15 เมตร
4) 17 เมตร

15. วัดความยาวส่วนของเส้นตรงทั้ง 3 เส้น แล้วตอบคำถาม

"$\overline{AB}$ รวมกับ $\overline{CD}$ ยาวกว่า $\overline{EF}$ เท่าใด"

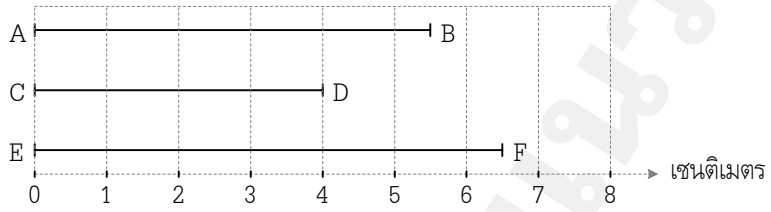

1) 2 เซนติเมตร
2) 2.5 เซนติเมตร
3) 3 เซนติเมตร
4) 3.5 เซนติเมตร

16. จำนวนในข้อใดมีค่า**มากที่สุด**

1) 2 กิโลเมตร
2) 300 เมตร
3) 2,500 เซนติเมตร
4) 2,000 หลา

17. แดงเริ่มทำการบ้านเวลา 16.30 น. ถ้าใช้เวลาทำการบ้านนาน 158 นาที เขาจะทำการบ้านเสร็จเวลาใด

1) 18.38 น.
2) 19.08 น.
3) 18.68 น.
4) 19.38 น.

18. ถ้า 1 ยาม คือ เวลา 3 ทุ่ม นักเรียนคิดว่า 3 ยาม คือเวลาใด

1) 03.00 น.
2) 12.00 น.
3) 21.00 น.
4) 24.00 น.

19. ใครมาถึงโรงเรียน**เช้าที่สุด**

1) ดำออกจากบ้านเวลา 06.30 น. ใช้เวลาเดินทางนาน 50 นาที
2) ก้อยออกจากบ้านเวลา 05.20 น. ใช้เวลาเดินทางนาน 86 นาที
3) หนุ่ยออกจากบ้านเวลา 06.50 น. ใช้เวลาเดินทางนาน 25 นาที
4) ปุ๋ยออกจากบ้านเวลา 05.50 น. ใช้เวลาเดินทางนาน 1 ชั่วโมง

20. จากภาพ ข้อใดกล่าว**ถูกต้อง**



ก่อนเที่ยง



หลังเที่ยง

1) สมศรีเข้านอนสามทุ่มสิบห้านาที ตื่นนอนเวลาตีห้าห้าสิบนาที
2) 21.15 นาฬิกา เป็นเวลาหลังเที่ยงวัน 5.50 นาฬิกา เป็นเวลาก่อนเที่ยง
3) อุไรเข้านอนเวลา 21.15 นาฬิกา เขาใช้เวลานอนนาน 7 ชั่วโมง 35 นาที
4) ปราณีเข้านอนเวลา 9.15 นาฬิกา ตื่นเวลา 4.50 นาฬิกา

21. ผลบวกจำนวนใดที่ค่าของเลขโดดประจำหลักสิบมีค่า**มากที่สุด**

1) 3,512 + 4,157
2) 4,542 + 3,283
3) 3,859 + 3,764
4) 1,307 + 2,185

22. "ส้มโอมีเงิน 3,856 บาท แตงโมมีเงินน้อยกว่าส้มโอ 1,227 บาท รวมสองคนมีเงินเท่าใด"
ข้อใดเขียนประโยคสัญลักษณ์ได้**ถูกต้อง**

1) 3,856 − 1,227 = □
2) 3,856 + 1,227 = □
3) 3,856 + (3,856 − 1,227) = □
4) 3,856 + (3,856 + 1,227) = □

23. **ก** มีเงินมากกว่า **ข** 1,365 บาท **ข** มีเงินเป็น 2 เท่าของ **ค** ถ้า **ค** มีเงิน 1,965 บาท อยากทราบว่า **ก** จะมีเงินเท่าใด

1) 3,330 บาท
2) 3,930 บาท
3) 4,930 บาท
4) 5,295 บาท

24. มังคุด $5\frac{1}{2}$ กิโลกรัม ราคา 66 บาท มังคุดราคากิโลกรัมละเท่าใด

1) 10 บาท
2) 11 บาท
3) 12 บาท
4) 13 บาท

25. มะม่วง 15 ผล มีน้ำหนักเท่ากับส้ม 32 ผล ถ้ามะม่วง 3 ผล หนัก 8 ขีด ส้ม 32 ผลจะหนักเท่าใด

1) 2 กิโลกรัม
2) 3.5 กิโลกรัม
3) 4 กิโลกรัม
4) 5.5 กิโลกรัม

26. ภาพ **ก** มีน้ำหนัก**น้อยกว่า**ภาพ **ข** เท่าใด



ภาพ ก



ภาพ ข

1) 1 กิโลกรัมครึ่ง
2) 1 กิโลกรัม 50 กรัม
3) 1 กิโลกรัม 50 ขีด
4) 1,050 กรัม

27. โค้กจุ 1.5 ลิตร รินใส่แก้วที่มีความจุ 250 มิลลิลิตรจะได้กี่แก้ว

1) 4 แก้ว
2) 6 แก้ว
3) 8 แก้ว
4) 10 แก้ว

28. ผลไม้ข้อใดมีน้ำหนัก**มากที่สุด**

1) เงาะ 25 ขีด
2) ส้ม 1,500 กรัม
3) ลำไย 2 กิโลกรัม
4) มังคุด 1.9 กิโลกรัม

29. แดง, เขียว, ดำ และส้ม มีขนมเค้กคนละ 1 ชิ้น ทุกคนแบ่งเค้กไปรับประทานเป็นบางส่วน ใครมีเค้กเหลือ**มากที่สุด**

1) แดงรับประทานไป $\frac{2}{3}$
2) เขียวรับประทานไป $\frac{4}{8}$
3) ดำรับประทานไป $\frac{5}{12}$
4) ส้มรับประทานไป $\frac{3}{5}$

30. ข้อใดเรียงลำดับจาก**มาก**ไปหา**น้อย**

1) $\frac{1}{8}, \frac{1}{7}, \frac{1}{6}, \frac{1}{5}$
2) $\frac{3}{3}, \frac{6}{7}, \frac{2}{4}, \frac{3}{8}$
3) $\frac{2}{6}, \frac{3}{6}, \frac{4}{6}, \frac{5}{6}$
4) $\frac{4}{7}, \frac{4}{8}, \frac{5}{9}, \frac{5}{10}$

31. วิชัยซื้อแตงโมมา 1 ผล มีคนรับประทานไป $\frac{1}{2}$ ผล ข้อใดเป็นจำนวนแตงโมที่เหลืออยู่

1) $\frac{4}{9}$
2) $\frac{15}{30}$
3) $\frac{7}{15}$
4) $\frac{12}{23}$

32. วิชิตมีมะนาว 30 ผล สมใจนำไปทำน้ำมะนาว $\frac{3}{5}$ ของจำนวนมะนาวที่มีอยู่ วิชิตจะเหลือมะนาวกี่ผล

1) 12 ผล
2) 18 ผล
3) 20 ผล
4) 24 ผล

33. จำนวนในข้อใดมีค่า**มากกว่า** 56×78 อยู่เท่ากับ 42

1) 4,400
2) 4,368
3) 4,360
4) 4,410

บริษัทตัวอย่าง

34. มีลูกแก้วสีแดง 284 ลูก ลูกแก้วสีน้ำเงินมีเป็น 3 เท่าของสีแดง ลูกแก้วสีเขียวมีครึ่งหนึ่งของลูกแก้วสีน้ำเงิน อยากทราบว่ามีลูกแก้วสีน้ำเงิน**มากกว่า**สีเขียวกี่ลูก

1) 142 ลูก
2) 287 ลูก
3) 426 ลูก
4) 852 ลูก

35. ขับรถด้วยอัตราเร็ว 80 กิโลเมตรต่อชั่วโมง ถึงที่หมายในเวลา 5 ชั่วโมง ถ้าเดินทางไป–กลับคิดเป็นระยะทางเท่าใด

1) 160 กิโลเมตร
2) 200 กิโลเมตร
3) 400 กิโลเมตร
4) 800 กิโลเมตร

36. หมู่บ้านแห่งหนึ่งมีประชากรที่เป็นผู้ใหญ่จำนวนสองส่วนในสามส่วน ที่เหลือเป็นเด็ก ถ้าเด็กผู้ชายมีจำนวนครึ่งหนึ่งของเด็กทั้งหมด จะเป็นเด็กผู้ชายกี่คน ถ้าประชากรในหมู่บ้านมี 60 คน

1) 10 คน
2) 20 คน
3) 30 คน
4) 40 คน

37. โรงเรียนแห่งหนึ่งมีนักเรียน 200 คน นักเรียน 1 ส่วนใน 4 ส่วน นำอาหารมารับประทานเอง ผู้ที่รับประทานอาหารของโรงเรียนจะต้องเสียเงินเดือนละ 400 บาท โรงเรียนจะได้รับค่าอาหารเดือนละเท่าใด

1) 600 บาท
2) 6,000 บาท
3) 60,000 บาท
4) 600,000 บาท

38. ผลลัพธ์ในข้อใดมีค่าต่างไปจาก 114 ÷ 6 = □

1) 57 ÷ 3 = □
2) 76 ÷ 4 = □
3) 96 ÷ 5 = □
4) 133 ÷ 7 = □

39. ผลลัพธ์ในข้อใดมีเศษ**มากที่สุด**

1) 86 ÷ 7 = □
2) 29 ÷ 5 = □
3) 143 ÷ 12 = □
4) 88 ÷ 10 = □

40. แดงมีเงิน 358 บาท ซื้อเสื้อได้ 4 ตัว แดงจะเหลือเงิน**น้อยที่สุด**กี่บาท ถ้าราคาเสื้อทั้ง 4 ตัว เป็นเลขจำนวนเต็มที่เท่ากัน

1) 2 บาท
2) 1 บาท
3) ไม่เหลือเงิน
4) ข้อมูลไม่เพียงพอ

41. คุณพ่อซื้อขนมมา 12 กล่อง เป็นเงิน 480 บาท ขนมราคากล่องละเท่าใด

1) 4 บาท
2) 4 กล่อง
3) 40 บาท
4) 40 กล่อง

พิจารณาภาพต่อไปนี้ แล้วตอบคำถามข้อ 42–43



มังคุดกิโลกรัมละ 15.50 บาท



พริกกิโลกรัมละ 20.25 บาท



แตงโมกิโลกรัมละ 80 บาท

42. ซื้อมังคุด 2 กิโลกรัม ให้ธนบัตรใบละ 50 บาท แม่ค้าทอนเป็นเหรียญบาท และเหรียญ 5 บาท จะได้เหรียญ 5 บาท **มากที่สุด**กี่เหรียญ

1) 3 เหรียญ
2) 4 เหรียญ
3) 19 เหรียญ
4) 31 เหรียญ

43. มีธนบัตรใบละหนึ่งร้อยบาทจำนวน 5 ใบ ถ้าซื้อมังคุด พริก และแตงโม อย่างละ 3 กิโลกรัม จะได้รับเงินทอนเท่าใด

1) สามร้อยสี่สิบเจ็ดบาทยี่สิบห้าสตางค์
2) หนึ่งร้อยห้าสิบสองบาทเจ็ดสิบห้าสตางค์
3) ห้าสิบสองบาทเจ็ดสิบห้าสตางค์
4) ไม่มีเงินทอน

44. จากภาพมีแกนสมมาตรกี่แกน

1) 0 แกน
2) 2 แกน
3) 4 แกน
4) 6 แกน

45. อ่านข้อความต่อไปนี้ แล้วตอบคำถาม

ก. แดงได้รับเงินจากคุณพ่อ 250 บาท

ข. ทำบุญไป 50 บาท

ค. ซื้อหมวก แล้วนำไปขายได้กำไร 20 บาท

แดงจะนำเงินไปใส่ในช่องบัญชีรับ–จ่าย อย่างไร ตามลำดับ

1) รายรับ, รายจ่าย, รายจ่าย
2) รายรับ, รายรับ, รายจ่าย
3) รายจ่าย, รายรับ, รายจ่าย
4) รายรับ, รายจ่าย, รายรับ

46. ภาพแรกมีรูปสามเหลี่ยม 6 รูป ดังนั้นภาพต่อไปจะมีรูปสี่เหลี่ยมกี่รูป

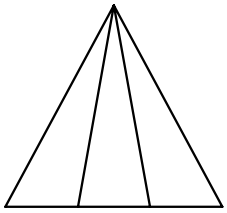

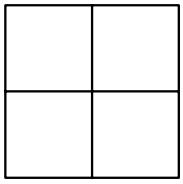

1) 5 รูป
2) 7 รูป
3) 8 รูป
4) 9 รูป

47. ข้อใด**แตกต่าง**ไปจากข้ออื่น

1) ○ △ ▱ ▱ 2) ▱ ○ △ ▱

3) △ ▱ ○ ▱ 4) △ ▱ ▱ ⬭

48. จากภาพอ่านว่าอย่างไร

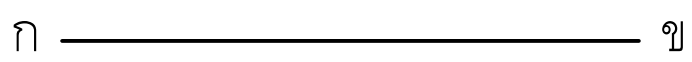

1) เส้นตรง กข 2) ส่วนของเส้นตรง กข

3) รัศมี ก ข 4) จุด ก และ จุด ข

49. จากภาพข้อใด**ถูกต้อง**

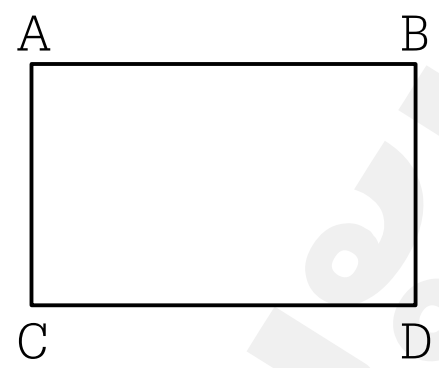

1) เส้นตรงลากมาพบกันที่จุด A, B, C และ D

2) มีจุดตัด 4 จุด คือ จุด A, B, C และ D

3) ส่วนของเส้นตรง 4 เส้นลากมาพบกันที่จุด A, B, C และ D

4) มีมุม 4 มุม คือ มุม ABCD

50. ข้อใดอ่านมุมได้**ถูกต้อง**

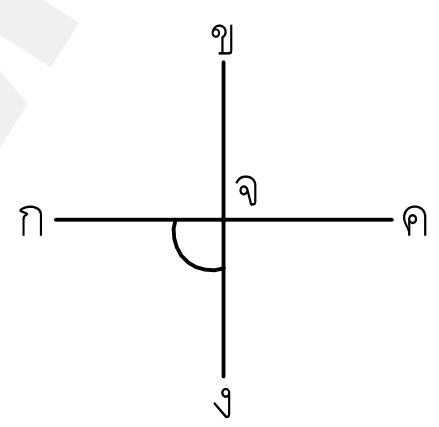

1) $\overline{\text{กจค}}$ 2) ก$\hat{\text{จ}}$ง

3) $\overline{\text{กจข}}$ 4) ก$\hat{\text{จ}}$ข

✧✧✧✧✧✧✧✧✧✧✧✧✧✧✧✧✧✧✧✧

ปัณฑิตแนะแนว

ข้อสอบเสริมประสบการณ์เพื่อวัดความรู้ระดับประถมศึกษา

คลังโจทย์ ชั้น ป.3

วิชา ภาษาไทย (ชุดที่ 1)

ชื่อ-นามสกุล..... **เลขที่นั่งสอบ**.....

สถานที่สอบ..... **ห้องสอบ**.....

คำอธิบาย

1. **ข้อสอบชุดนี้** มีจำนวน 50 ข้อ คะแนนเต็ม 100 คะแนน ให้เวลาทำ 40 นาที
2. **ในการทำข้อสอบ** ให้เลือกคำตอบที่ถูกต้องหรือเหมาะสมที่สุด เพียงคำตอบเดียว กรณีข้อใดไม่มีตัวเลือกที่ถูกต้องให้ตอบตัวเลือกที่ 5) แทน
3. **นักเรียนจะต้องพยายามทำข้อสอบและจับเวลาเหมือนกับการสอบแข่งขันจริง** ห้ามใช้เวลาสอบเกินที่กำหนดและห้ามเปิดตำราดู หรือนำอุปกรณ์ช่วยในการคิดคำนวณมาใช้เด็ดขาด ทั้งนี้เพื่อประโยชน์ในการทดสอบวัดความรู้ของตัวนักเรียนเอง (อาจให้ผู้ปกครองช่วยควบคุมการสอบ หรืออาจใช้นาฬิกาปลุกตั้งเวลาก็ได้) เมื่อหมดเวลาสอบ ให้ตรวจคะแนนจากส่วนเฉลย เรื่องใดทำไม่ได้หรือทำผิดให้กลับไปอ่านหนังสือทบทวนใหม่
4. **การประเมินผล** นักเรียนสามารถนำ “คะแนนสอบที่ทำได้” ไปเปรียบเทียบกับ **ตารางสรุปค่าสถิติในวิชานี้ของนักเรียนทั่วประเทศ** (หลังปกข้อสอบนี้) ก็จะทำให้เห็นระดับความสามารถของตัวเองได้อย่างชัดเจน

ข้อสอบชุดนี้จัดทำขึ้นโดยรวบรวม-ปรับปรุงมาจาก **“ข้อสอบ PRE-ประถมศึกษา 5 ปีล่าสุด”** ของบัณฑิตแนะแนว ซึ่งเคยผ่านการใช้ทดสอบนักเรียนทั่วประเทศกว่า 50,000 คน มาแล้ว จึงเหมาะที่จะใช้ทบทวนความรู้และวัดผลตนเอง เพื่อพัฒนาความเป็นเลิศในแต่ละวิชาและเตรียมสอบแข่งขันในทุกสนาม

ตารางสรุปค่าสถิติวิชานี้ของนักเรียนทั่วประเทศ

ที่เคยเข้าสอบ PRE-ประถมศึกษา ในวิชา ภาษาไทย (ชุดที่ 1)

เมื่อสอบเสร็จให้นำ "คะแนนที่ทำได้" มาเปรียบเทียบเพื่อวัดความสามารถกับ "ค่าสถิติ" นี้ได้เลย

ภาค	สูงสุด (MAXIMUM)	ฐานนิยม (MODE)	มัธยฐาน (MEDIAN)	ค่าเฉลี่ย (MEAN)
กทม.	90.00	30.00	46.00	47.37
เหนือ	92.00	40.00	44.00	46.12
ใต้	90.00	50.00	46.00	47.14
อีสาน	92.00	32.00	44.00	45.88
ตะวันออก	90.00	32.00	50.00	49.85
กลาง-ตะวันตก	92.00	40.00	50.00	50.15
รวมทั้งประเทศ	**92.00%**	**40.00%**	**46.00%**	**47.85%**

ช่วงคะแนน (%)	จำนวนนักเรียน (%) ที่ทำคะแนนสอบวิชานี้ได้ในแต่ละช่วงของแต่ละภาค						
	กทม.	เหนือ	ใต้	อีสาน	ตะวันออก	กลาง	ทั้งประเทศ
0-10	0.07	0.11	0.03	0.04	0.00	0.06	0.05
>10-20	3.01	3.89	3.45	3.80	2.63	3.16	3.32
>20-30	15.00	16.42	15.07	17.97	14.65	12.58	15.03
>30-40	20.62	23.16	20.59	23.31	17.76	18.46	20.51
>40-50	20.80	19.39	20.39	17.62	16.87	17.62	18.92
>50-60	17.72	16.20	18.44	15.07	17.28	17.71	17.26
>60-70	14.00	11.93	13.62	13.27	18.01	17.34	14.76
>70-80	7.24	6.96	7.11	7.38	10.95	9.97	8.22
>80-90	1.54	1.83	1.30	1.50	1.85	3.02	1.89
>90-100	0.00	0.11	0.00	0.04	0.00	0.08	0.04
รวม	**100%**	**100%**	**100%**	**100%**	**100%**	**100%**	**100%**

ดูคำอธิบาย "วิธีใช้ตารางสรุปค่าสถิติของนักเรียนทั่วประเทศ" ได้ที่หน้าสุดท้ายของเล่ม

กระดาษคำตอบ

วิชา..

ผลการสอบ

ทำได้ ____ คะแนน

1	① ② ③ ④ ⑤	41	① ② ③ ④ ⑤	81	① ② ③ ④ ⑤	121	① ② ③ ④ ⑤
2	① ② ③ ④ ⑤	42	① ② ③ ④ ⑤	82	① ② ③ ④ ⑤	122	① ② ③ ④ ⑤
3	① ② ③ ④ ⑤	43	① ② ③ ④ ⑤	83	① ② ③ ④ ⑤	123	① ② ③ ④ ⑤
4	① ② ③ ④ ⑤	44	① ② ③ ④ ⑤	84	① ② ③ ④ ⑤	124	① ② ③ ④ ⑤
5	① ② ③ ④ ⑤	45	① ② ③ ④ ⑤	85	① ② ③ ④ ⑤	125	① ② ③ ④ ⑤
6	① ② ③ ④ ⑤	46	① ② ③ ④ ⑤	86	① ② ③ ④ ⑤	126	① ② ③ ④ ⑤
7	① ② ③ ④ ⑤	47	① ② ③ ④ ⑤	87	① ② ③ ④ ⑤	127	① ② ③ ④ ⑤
8	① ② ③ ④ ⑤	48	① ② ③ ④ ⑤	88	① ② ③ ④ ⑤	128	① ② ③ ④ ⑤
9	① ② ③ ④ ⑤	49	① ② ③ ④ ⑤	89	① ② ③ ④ ⑤	129	① ② ③ ④ ⑤
10	① ② ③ ④ ⑤	50	① ② ③ ④ ⑤	90	① ② ③ ④ ⑤	130	① ② ③ ④ ⑤
11	① ② ③ ④ ⑤	51	① ② ③ ④ ⑤	91	① ② ③ ④ ⑤	131	① ② ③ ④ ⑤
12	① ② ③ ④ ⑤	52	① ② ③ ④ ⑤	92	① ② ③ ④ ⑤	132	① ② ③ ④ ⑤
13	① ② ③ ④ ⑤	53	① ② ③ ④ ⑤	93	① ② ③ ④ ⑤	133	① ② ③ ④ ⑤
14	① ② ③ ④ ⑤	54	① ② ③ ④ ⑤	94	① ② ③ ④ ⑤	134	① ② ③ ④ ⑤
15	① ② ③ ④ ⑤	55	① ② ③ ④ ⑤	95	① ② ③ ④ ⑤	135	① ② ③ ④ ⑤
16	① ② ③ ④ ⑤	56	① ② ③ ④ ⑤	96	① ② ③ ④ ⑤	136	① ② ③ ④ ⑤
17	① ② ③ ④ ⑤	57	① ② ③ ④ ⑤	97	① ② ③ ④ ⑤	137	① ② ③ ④ ⑤
18	① ② ③ ④ ⑤	58	① ② ③ ④ ⑤	98	① ② ③ ④ ⑤	138	① ② ③ ④ ⑤
19	① ② ③ ④ ⑤	59	① ② ③ ④ ⑤	99	① ② ③ ④ ⑤	139	① ② ③ ④ ⑤
20	① ② ③ ④ ⑤	60	① ② ③ ④ ⑤	100	① ② ③ ④ ⑤	140	① ② ③ ④ ⑤
21	① ② ③ ④ ⑤	61	① ② ③ ④ ⑤	101	① ② ③ ④ ⑤	141	① ② ③ ④ ⑤
22	① ② ③ ④ ⑤	62	① ② ③ ④ ⑤	102	① ② ③ ④ ⑤	142	① ② ③ ④ ⑤
23	① ② ③ ④ ⑤	63	① ② ③ ④ ⑤	103	① ② ③ ④ ⑤	143	① ② ③ ④ ⑤
24	① ② ③ ④ ⑤	64	① ② ③ ④ ⑤	104	① ② ③ ④ ⑤	144	① ② ③ ④ ⑤
25	① ② ③ ④ ⑤	65	① ② ③ ④ ⑤	105	① ② ③ ④ ⑤	145	① ② ③ ④ ⑤
26	① ② ③ ④ ⑤	66	① ② ③ ④ ⑤	106	① ② ③ ④ ⑤	146	① ② ③ ④ ⑤
27	① ② ③ ④ ⑤	67	① ② ③ ④ ⑤	107	① ② ③ ④ ⑤	147	① ② ③ ④ ⑤
28	① ② ③ ④ ⑤	68	① ② ③ ④ ⑤	108	① ② ③ ④ ⑤	148	① ② ③ ④ ⑤
29	① ② ③ ④ ⑤	69	① ② ③ ④ ⑤	109	① ② ③ ④ ⑤	149	① ② ③ ④ ⑤
30	① ② ③ ④ ⑤	70	① ② ③ ④ ⑤	110	① ② ③ ④ ⑤	150	① ② ③ ④ ⑤
31	① ② ③ ④ ⑤	71	① ② ③ ④ ⑤	111	① ② ③ ④ ⑤	151	① ② ③ ④ ⑤
32	① ② ③ ④ ⑤	72	① ② ③ ④ ⑤	112	① ② ③ ④ ⑤	152	① ② ③ ④ ⑤
33	① ② ③ ④ ⑤	73	① ② ③ ④ ⑤	113	① ② ③ ④ ⑤	153	① ② ③ ④ ⑤
34	① ② ③ ④ ⑤	74	① ② ③ ④ ⑤	114	① ② ③ ④ ⑤	154	① ② ③ ④ ⑤
35	① ② ③ ④ ⑤	75	① ② ③ ④ ⑤	115	① ② ③ ④ ⑤	155	① ② ③ ④ ⑤
36	① ② ③ ④ ⑤	76	① ② ③ ④ ⑤	116	① ② ③ ④ ⑤	156	① ② ③ ④ ⑤
37	① ② ③ ④ ⑤	77	① ② ③ ④ ⑤	117	① ② ③ ④ ⑤	157	① ② ③ ④ ⑤
38	① ② ③ ④ ⑤	78	① ② ③ ④ ⑤	118	① ② ③ ④ ⑤	158	① ② ③ ④ ⑤
39	① ② ③ ④ ⑤	79	① ② ③ ④ ⑤	119	① ② ③ ④ ⑤	159	① ② ③ ④ ⑤
40	① ② ③ ④ ⑤	80	① ② ③ ④ ⑤	120	① ② ③ ④ ⑤	160	① ② ③ ④ ⑤

1. **"นิทานชาดก"** เป็นเรื่องราวในอดีตของใคร

1) เทวดา
2) พระพุทธเจ้า
3) อีสป
4) พระเจ้าแผ่นดิน

2. ข้อใดเป็น **"คำพ้องรูป"**

1) พระ**กาฬ** **กาล**เวลา
2) หนึ่ง**บาท** **บาตร**พระ
3) พระ**ขรรค์** **ขัน**น้ำ
4) **เพลา**รถ **เพลา**เย็น

3. ข้อใดเป็น **"คำพ้องเสียง"**

1) แห่**แหน** จอก**แหน**
2) อา**เพศ** เบญจ**เพส**
3) **สระ**น้ำ **สระ**อา
4) ชาว**แขม** ต้น**แขม**

4. **"คนเราต้องทำงานจริงจัง ไม่ควรพึ่งผู้อื่นตลอดเวลา"** ข้อความนี้มีความหมายตรงกับข้อใด

1) ตำน้ำพริกละลายแม่น้ำ
2) ตนเป็นที่พึ่งแห่งตน
3) เห็นช้างขี้ ขี้ตามช้าง
4) น้ำขึ้นให้รีบตัก

5. ข้อใดใช้ **"ตัวการันต์" ถูกต้อง**ทุกคำ

1) สิงห์โต สมบูรณ์
2) เกาทัณฑ์ ราชสีห์
3) เหตุการณ์ สังสรรค์
4) อุโมงก์ มนุษต์

6. ข้อใดเป็นสิ่งมีชีวิตที่อยู่บริเวณ **"ป่าชายเลน"** ทั้งหมด

1) ต้นโกงกาง ปลาบู่
2) ต้นลำพู ปูแสม
3) ลิงแสม ปูม้า
4) ต้นไทร หิ่งห้อย

7. คำในข้อใดเรียงลำดับได้**ถูกต้อง**ตามแบบพจนานุกรม

1) ก้อย ก้าง กฐิน
2) ผัด ผัง เผย
3) นุ่ง เน้น เนย
4) ฝรั่ง ฝน ฝูง

8. ตัว **"ฤ"** ในข้อใดออกเสียงเป็น **"รึ"**

1) ประพฤติ
2) กฤษณา
3) อังกฤษ
4) ทฤษฎี

9. คำใดเป็นคำ **"ราชาศัพท์"**

1) ประทีป
2) ประทับ
3) ประสิทธิ์
4) ประเสริฐ

10. คำในข้อใดมีความหมาย**ต่าง**จากคำในข้ออื่น

1) สวรรคต
2) สิ้นพระชนม์
3) ประสูติ
4) มรณภาพ

11. ข้อใดมีคำคล้องจองมากกว่า 1 คู่

1) แมวเอ๋ยแมวเหมียว
2) ร่างกายกำยำล่ำสัน
3) ดุดันโดยหมายว่ากายโต
4) กินไผ่ใบดกตกมัน

12. สำนวน **"โอ้เอ้วิหารราย"** หมายถึงอะไร

1) ชักช้า อ้อยอิ่ง
2) มีระเบียบวินัยดี
3) รอบคอบ ไม่ประมาท
4) ชื่อเพลงโบราณสมัยอยุธยา

13.

	"วิชาความรู้
เป็นอาภรณ์หรู	อยู่คู่ตัวเรา
ในโลกยุคใหม่	ผู้ไม่ขลาดเขลา
ค้นคว้าเรียนเอา	จึงเข้าสู่ชัย"

ร้อยกรองข้างต้นนี้เป็นคำประพันธ์ประเภทใด

1) โคลงสี่สุภาพ
2) กาพย์ยานี 11
3) กาพย์สุรางคนางค์ 28
4) กาพย์ฉบัง 16

14. คำในข้อใดออกเสียงตัวสะกด **"ด"** ทุกคำ

1) หลอก พราน
2) เสียง อย่าง
3) ผลิต สิทธิ์
4) กล่อม สถิต

15. คำใดมีอักษรสูงเป็นพยัญชนะต้นทุกพยางค์

1) ไก่แจ้
2) ข้าวสาร
3) เรือนหอ
4) ม้าลาย

16. คำใดมีความหมาย**ต่าง**จากคำอื่น

1) ดาวรุ่ง
2) ดาวศุกร์
3) ดาวเหนือ
4) ดาวประกายพรึก

17. คำใดมีความหมาย**ต่าง**จากคำอื่น

1) ดวงเดือน
2) ดารากร
3) จันทรา
4) ศศิธร

18.

"ศรทรงองค์พระไชยเชษฐ์	อาเพศไม่พานโอรสา
กลับเป็น**<u>เอมโอชโภชนา</u>**	เกลื่อนกลาดดาษดาพนาวัน"

คำที่ขีดเส้นใต้มีความหมายตรงกับข้อใด

1) ดอกไม้ที่มีกลิ่นหอม
2) อาหารรสอร่อย
3) พวงมาลัยดอกมะลิ
4) ของเล่นของเด็ก

19. "ใครบังอาจมุ่งร้ายทำลายมัน ต่างกรูกัน**<u>สู้ยิบตา</u>**พร้อมหน้าเอย"

คำที่ขีดเส้นใต้มีความหมายว่าอย่างไร

1) สู้อย่างคล่องแคล่วว่องไว
2) สู้แบบรุมทำร้ายผู้อื่น
3) สู้ไม่ถอยสู้จนถึงที่สุด
4) สู้ไปถอยไป

บัณฑิตแนะแนว

20. **"วันภาษาไทยแห่งชาติ"** ตรงกับวันใด

1) 26 มิถุนายน
2) 29 กรกฎาคม
3) 18 สิงหาคม
4) 23 ตุลาคม

21. คำว่า **"รายได้เสริม"** มีความหมายว่าอย่างไร

1) รายได้จากการทำการค้า
2) รายได้ที่ได้รับเป็นรางวัล
3) รายได้ที่ได้รับเพิ่มจากรายได้ประจำ
4) รายได้ที่ได้จากการรับเงินเกษียณอายุ

22. ข้อใดคือ **"เครื่องจิ้ม"** ของคนภาคใต้

1) น้ำพริกหนุ่ม
2) น้ำพริกกะปิ
3) ปลาร้าหลน
4) น้ำบูดูแบบเค็ม

23. ข้อใดเป็น **"สันธาน"** ที่มีลักษณะเชื่อมข้อความที่คล้อยตามกัน

1) แต่...ก็
2) แม้...แต่
3) เมื่อ...ก็
4) กว่า...ก็

24. "นักท่องเที่ยวหยิบสินค้า**<u>สวยๆ</u>** ขึ้นมาดู" คำที่ขีดเส้นใต้จัดเป็นคำประเภทใด

1) คำนาม
2) คำวิเศษณ์
3) คำสรรพนาม
4) คำกริยา

25. ข้อใดเขียน **"อักษรย่อ" ไม่ถูกต้อง**

1) กุมภาพันธ์ = ก.พ.
2) พุทธศักราช = พ.ศ.
3) ร้อยตรี = รต.
4) กรุงเทพมหานคร = กทม.

26. ข้อใดเป็น **"อักษรนำ"** ทั้งหมด

1) ไหม้ ใกล้
2) สว่าง ครัว
3) จรวด สร้อย
4) ขนม อร่อย

27. **"บุญหลายชอบสวมสร้อยไปตลาดท่าทรายข้างคลองประปา"** ประโยคนี้มีคำควบกล้ำทั้งหมดกี่คำ

1) 6 คำ
2) 5 คำ
3) 4 คำ
4) 3 คำ

28. ข้อใดเป็น **"คำควบไม่แท้"** ทั้งหมด

1) กราบ สร้อย
2) ทราย เศร้า
3) กวาง จริง
4) เสริม ครัว

29. ข้อใดสะกด**ผิด**

1) แมลง**สาบ**
2) **สาบ**เสือ
3) คำ**สาบ**
4) เหม็น**สาบ**

30. **"ทำเรื่องเล็กให้เป็นเรื่องใหญ่"** มีความหมายตรงกับสำนวนใด

1) ขี่ช้างจับตั๊กแตน
2) แพะรับบาป
3) กิ้งก่าได้ทอง
4) เอามือซุกหีบ

บัณฑิตแนะแนว

โปรดทราบ!

ตัวอย่างนี้จะโชว์เฉพาะหน้า 1-20 เท่านั้น

หากจะขอดูหนังสือทั้งเล่ม ต้องติดต่อที่

บัณฑิตแนะแนว (โทรศัพท์ 02-2794808)

หรือ ที่ร้านจำหน่ายหนังสือชั้นนำทั่วประเทศ

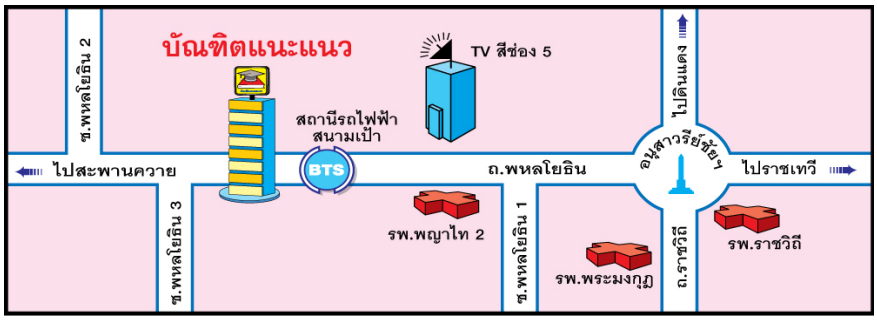

สำนักงานบัณฑิตแนะแนว 1033/4 ถ.พหลโยธิน สามเสนใน พญาไท กทม. 10400

เวลาทำงาน 08.00-17.00 น. **Website :** www.bunditnaenaew.com

ฝ่ายประชาสัมพันธ์ เปิดทุกวัน (จันทร์-อาทิตย์) โทรศัพท์ 02-2794808 แฟกซ์ 02-6171820

ตรงตามหลักสูตรใหม่

ชุด โจทย์ขั้นเทพและคลังโจทย์....หนังสือชุดเดียวในประเทศไทย!! ที่มี "ตารางสรุปค่าสถิติของนักเรียนทั่วประเทศ" สำหรับใช้เปรียบเทียบเพื่อประเมินความสามารถของตัวเองในแต่ละวิชาได้อย่างชัดเจน จัดพิมพ์หลายเล่ม แยกตามระดับชั้น โจทย์ครอบคลุมและพลิกแพลงหลายรูปแบบ เพื่อความเป็นเลิศเหนือระดับ พร้อมเฉลยละเอียดเข้าใจง่าย เหมาะสำหรับใช้เตรียมสอบเพื่อวัดพื้นฐานความรู้, สอบคัดเลือกเข้าเรียนต่อ และสอบแข่งขันในทุกสนาม!

โจทย์ขั้นเทพ ประถม
ราคา 199 บาท

โจทย์ขั้นเทพ ม.ต้น
ราคา 299 บาท

คลังโจทย์ ประถม
ราคา 199 บาท

คลังโจทย์ ม.ต้น
ราคา 299 บาท

ชุด TOP เป็นหนังสือสรุปเนื้อหาสำคัญ ตามหลักสูตรในแต่ละวิชาของแต่ละระดับชั้นพร้อมแบบฝึกหัดท้ายบท เหมาะสำหรับนักเรียนใช้อ่านทบทวนความรู้อย่างมีประสิทธิภาพ เพื่อผลการสอบที่ยอดเยี่ยม

ชุด TEST เป็นหนังสือโจทย์แบบฝึกหัดเรียงตามบทเรียนแต่ละเรื่องของวิชานั้นๆ เหมาะสำหรับนักเรียนใช้ฝึกทำเพื่อทบทวนและพัฒนาความรู้ด้วยตัวเอง เพราะจะมีโจทย์ ที่ออกครอบคลุมทุกเรื่องครบถ้วนและพลิกแพลง ตั้งแต่ง่ายไปหายาก พร้อมเฉลยอย่างละเอียด

หนังสือทั้งชุด ชุด TOP และ ชุด TEST จัดพิมพ์ด้วยกระดาษปอนด์สีขาวอย่างดี โดยระดับประถมศึกษา แยกเป็น 6 ชั้น ๆ ละ 5 วิชา คือ คณิตศาสตร์, วิทยาศาสตร์, ภาษาอังกฤษ, ภาษาไทย และ**สังคมศึกษา** ดังนี้

TOP ป.1-ป.3
ราคา 69 บาท

TOP ป.4-ป.6
ราคา 79 บาท

TEST ป.1-ป.3
ราคา 69 บาท

TEST ป.4-ป.6
ราคา 79 บาท

ชุด เตรียมสอบ NT & ONET และ สอบคัดต่อ

เพื่อเตรียมสอบ NT & O-NET และ สอบคัดเลือกเข้าเรียนต่อ มีหลายเล่ม

คัมภีร์สอบ O-NET ชั้น ป.6
ราคา 159 บาท

คัมภีร์สอบ O-NET ชั้น ม.3
ราคา 159 บาท

คัมภีร์สอบเข้า ม.1 สาธิต
ราคา 299 บาท

ชุดยอดเก็งเข้า ม.1
ราคา 159 บาท

มีวางจำหน่ายที่ร้านหนังสือชั้นนำทั่วประเทศ หรือสั่งซื้อโดยตรงที่

ปัณฑิตแนะแนว กว่า 30 ปีแห่งผลงานและความเชี่ยวชาญ 1033/4 ถนนพหลโยธิน สามเสนใน พญาไท กทม. 10400
โทรศัพท์ 02-2794808 และ 02-6195844 แฟกซ์ 02-6171820

กว่า 30 ปี ในวงการศึกษา กับ 4 ผลงานคุณภาพ ที่สร้างสรรค์เพื่อเยาวชนไทย

1 ศูนย์จัดสอบทางวิชาการ

จัดสอบด้วยข้อสอบมาตรฐานพร้อมกันทั่วประเทศ โดยแบ่งการสอบออกเป็น 3 กลุ่มตามระดับการศึกษา คือ PRE-ประถมศึกษา (ป.3-ป.6), PRE-ม.ต้น (ม.1-ม.3) และ PRE-ADMISSIONS (ม.4-ม.6) เพื่อให้นักเรียนทราบระดับความสามารถทางวิชาการของตนเอง จนใช้เป็นแนวทางในการเลือกสถานศึกษาต่อและอาชีพได้อย่างเหมาะสม

2 ศูนย์ผลิตตำราและสำนักพิมพ์

ผลิตและจำหน่ายหนังสือคู่มือประกอบการเรียนตั้งแต่ประถม-เอนทรานซ์ ด้วยความโดดเด่นของเนื้อหาที่เข้าใจง่าย ตรงตามบทเรียนทั้งเทอมต้น-เทอมปลาย เพิ่มศักยภาพในการเรียนสำหรับทุกช่วงชั้น

3 ศูนย์กวดวิชาแนวใหม่

รูปแบบใหม่ของการกวดวิชาเปิดสอนตั้งแต่ระดับประถม-ม.ปลาย ดำเนินการสอนโดยทีมอาจารย์ชั้นนำของประเทศที่มีเทคนิคการถ่ายทอดความรู้ให้เข้าใจง่าย เน้นให้นักเรียนสนุกกับการเรียน พร้อมกระบวนการสอบ เพื่อวัดความรู้ตลอดหลักสูตรและมีเจ้าหน้าที่แนะแนวคอยดูแลอย่างใกล้ชิด

4 ศูนย์บริการด้านแนะแนว

การริเริ่มและบุกเบิกงานแนะแนวที่เปิดให้บริการแก่โรงเรียน, ครู, ผู้ปกครอง และนักเรียนทั่วประเทศ กว่า 20 ปีที่ผ่านมาเป็นผลงานอีกด้านที่เราภูมิใจ ทั้งในเรื่องของการรวบรวมข้อมูล, ข่าวสาร และผลิตสื่อวัสดุต่างๆ ทางด้านแนะแนวออกเผยแพร่ รวมถึงการให้คำปรึกษาด้านแนะแนวฟรี

คลังโจทย์ ป.3
(เล่ม 1)

ISBN 978-616-504-072-3
9 786165 040723

ราคา 199 บาท